CORRECTION Vendredi 5 juin

Français :

Dans le texte « Le règlement de la piscine », trouve :

- trois groupes nominaux avec complément de nom, l'intérieur d'une piscine ; des règles de sécurité ; le bord du bassin ; au surveillant de la piscine ; en cas de problème ; la fin de la baignade
- deux noms avec déterminant possessif ses affaires ; son casier
- trois noms avec article défini l'intérieur ; les vestiaires ; la clé ; le pédiluve ; la piscine ; le bord (du bassin) ; le bassin ; l'eau ; les autres personnes ; la fin (de la baignade) ; les douches
- un nom avec article indéfini des règles (de sécurité) ; une piscine ; un casier ; une douche

Change de nombre les groupes nominaux suivants :

- le règlement de la piscine → - les règlements de la piscine

– des règles de sécurité → – une règle de sécurité

– les immenses vestiaires → – l'immense vestiaire

– le bord du bassin → – les bords du bassin

– les autres personnes → – l'autre personne

– une douche propre → – des douches propres

Numération :

Range les séries de nombres dans l'ordre décroissant.

a) 111 023 > 74 856 > 74 563 > 74 098

b) 228 963 > 225 987 > 225 636 > 221 546

Place les fractions sur la droite graduée puis range-les dans l'ordre croissant :

$$A : \frac{8}{4} \quad ; \quad B : \frac{3}{4} \quad ; \quad C : \frac{21}{4} \quad ; \quad D : \frac{13}{4}$$

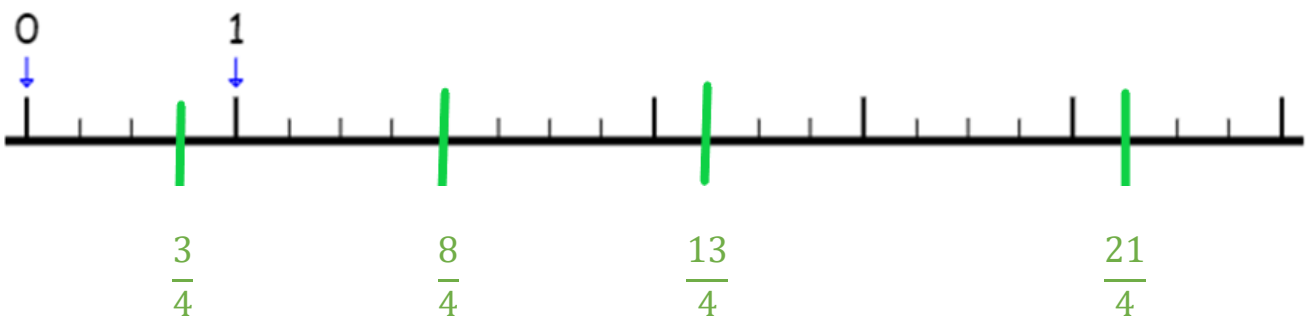

Quel est le nombre dont le chiffre des dizaines et des dixièmes est 5, le chiffre des centaines et des centièmes est 7 et le chiffre des unités est 0 : 750,57

Géométrie :

Il a :

2 faces triangulaires,

3 faces rectangulaires

9 arêtes

6 sommets .

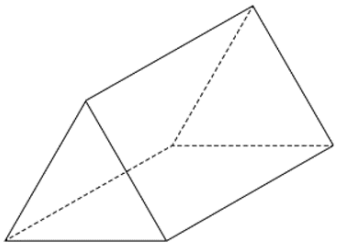

5 **Les faces.**

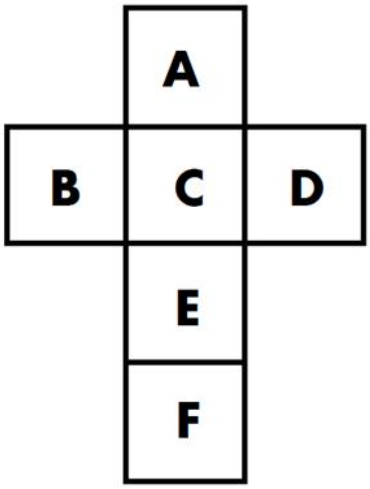

Voici un patron de cube.

Lorsqu'on plie le patron :

quelle est la face opposée à la face B ?

C'est la face D.

quelle est la face opposée à la face F ?

C'est la face C.

Mesure :

Objectif : Convertir des contenances

3 Convertis chaque capacité en centilitres et millilitres.

Capacité	$\frac{1}{2}$ L	$\frac{3}{2}$ L	$\frac{1}{4}$ L	$\frac{3}{4}$ L	$\frac{1}{10}$ L
Capacité en centilitres	50 cL	150 cL	25 cL	75 cL	10 cL
Capacité en millilitres	500 mL	1 500 mL	250 mL	750 mL	100 mL

Problème :

2 Le spectacle commence à 17 h 15. Il est composé d'une période de 55 minutes, d'un entracte de 20 minutes, et d'une seconde période de 50 minutes.

a. Ils arrivent, en voiture, 34 minutes avant le début du spectacle. À quelle heure arrivent-ils ?

17 h 15 – 0 h 34 = 16 h 75 – 0 h 34 = 16 h 41

Ils arrivent à 16 h 41.

b. Combien de temps dure le spectacle (avec l'entracte) ?

0 h 55 + 0 h 20 + 0 h 50 = 0 h 125 = 2 h 05

Le spectacle dure 2 h 05.

c. À quelle heure quittent-ils la salle de spectacle ?

17 h 15 + 2 h 05 = 19 h 20

Ils quittent la salle de spectacle à 19 h 20.

d. Ils se sont garés dans un parking souterrain à 2 € de l'heure (l'heure commencée est due). Combien paient-ils ?

19 h 20 – 16 h 41 = 18 h 80 – 16 h 41 = 4 h 39.
5 × 2 = 10 €. Ils paient 10 €.